○地理的分野復習「都道府県名」



01	02	03	04	05
06	07	08	09	10
11	12	13	14	15
16	17	18	19	20
21	22	23	24	25
26	27	28	29	30
31	32	33	34	35
36	37	38	39	40
41	42	43	44	45
46	47			

○地理的分野復習「世界の気候」

１　５つの気候帯

No.	気候帯名	気候の特色	分　布
①	帯(赤)	１年中、気温が高く、雨も多い。	・(　　)近辺に広がる。
②	帯(緑)	はっきりとした四季の変化がある	・日本、ヨーロッパ。
③	帯(青)	四季はあるが､冬が長く寒さが厳しい。	・(　　)やカナダ。
④	帯(黄)	極端に雨が少ない。	・世界各地で見られる。
⑤	帯(紫)	１年中、氷雪がある。	・北極、南極など。

世界の気候区分（熱帯・乾燥帯・寒帯）

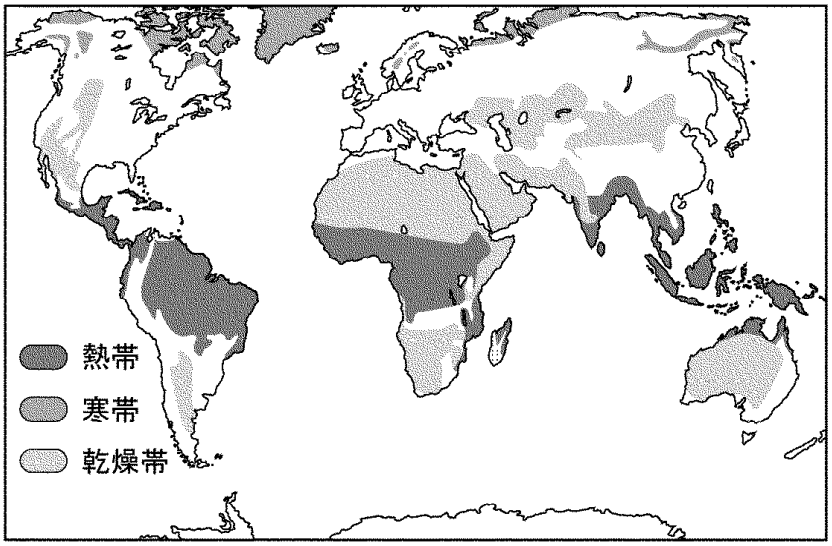

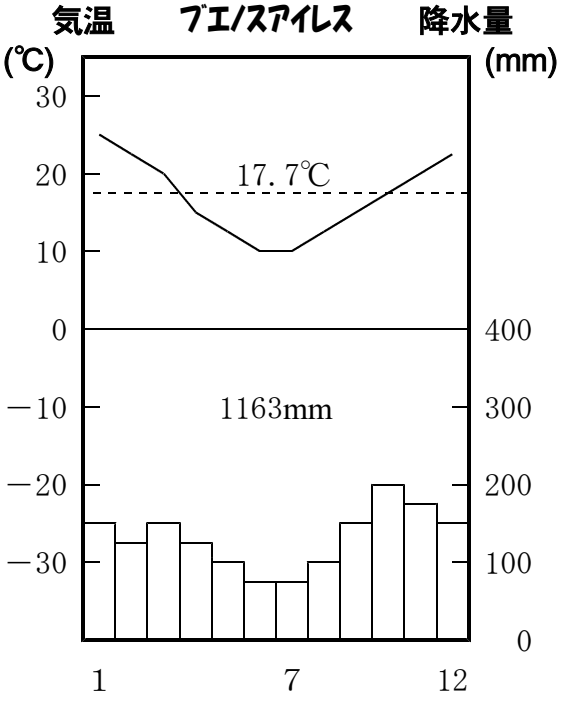

※作業１　気温を赤、降水量を青でなぞろう！

※考察１　何か不思議なことは？

※考察２　**なぜ、そのようになるのか？**

※作業２　**ブエノスアイレス**の位置を確認しよう。

○地理的分野復習「日本の気候」

1　日本の気候

日本の気候は、ほとんどの所が「（　　）帯」 ➡例外は、北海道と沖縄

No.	場　所	気候の特色
A	北海道(紫)	・四季はあるが、冬が長く寒さが厳しい。
B	**日本海側**(緑)	・冬に（　　）による、降水量が多い。
C	太平洋側(赤)	・夏に雨が多く、冬は少ない。
D	中央高地(青)	・雨がやや少なく、気温もやや低い。
E	**瀬戸内海沿岸**(黄)	・雨がやや少ない
	沖縄	・熱帯に近い気候。１年中温暖。

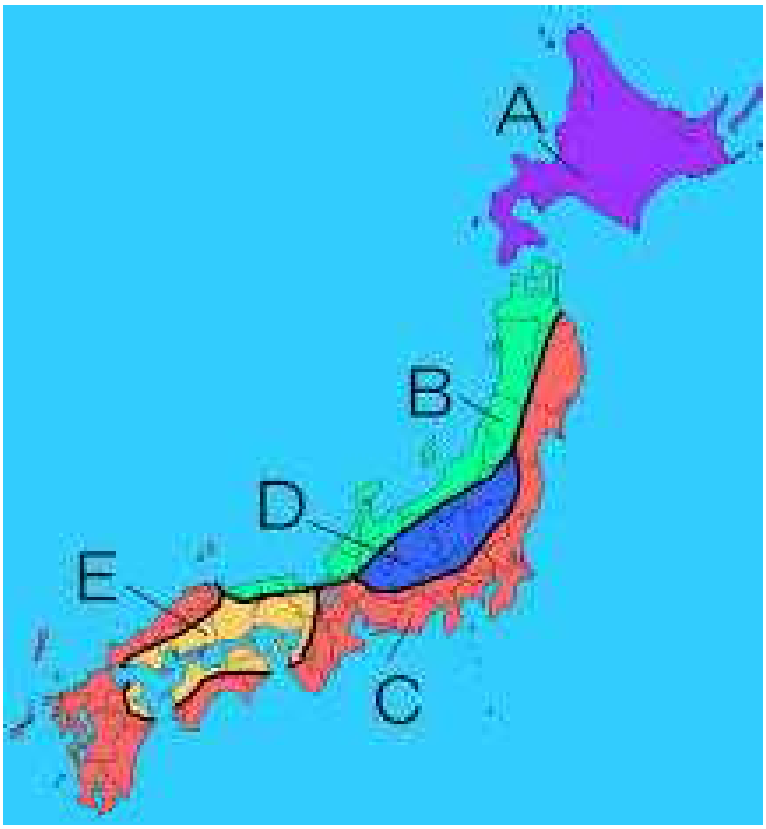

金沢

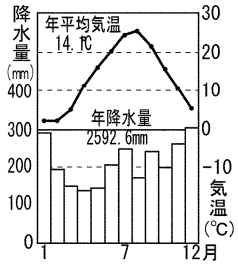

（2000年版 理科年表による）

静岡

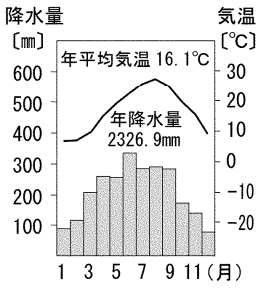

（「理科年表」2000年版による）

那覇

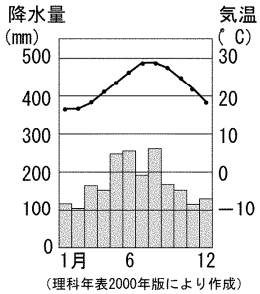

（理科年表2000年版により作成）