１学年「地理的分野」の復習（地形図編）

①　方位　…　基本的に地図の上の方位は(　　)になる。

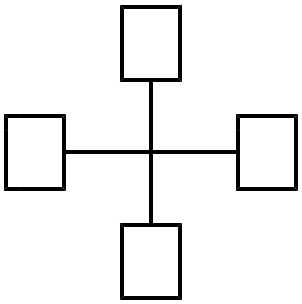

【(　　)方位】

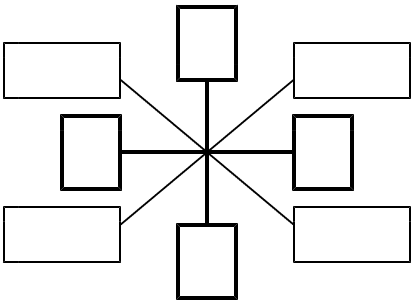

【(　　)方位】

②　地図記号

1		8		15	
2		9		16	
3		10		17	
4		11		18	
5		12		19	
6		13		20	△
7		14	文	21	□

③　縮尺

Ｑ１　25,000分の１の地図で４ cm ありました。実際は何mか。

Ｑ２　実際の距離１ km は、50,000分の１の地図では、何 cm か。

④　等高線　➡間隔がせまければ坂は(　　)、間隔が広ければ坂は(　　)。

町の変化（地形図）

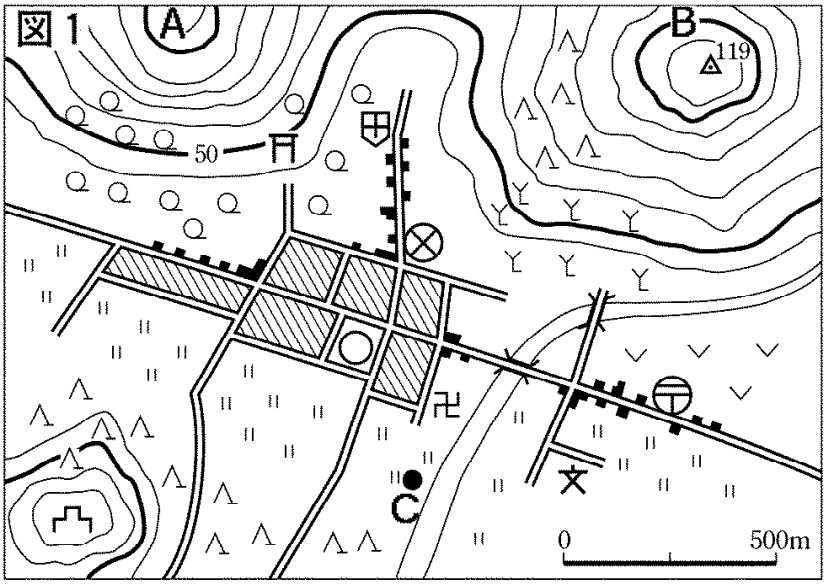

〔昔の町のようす〕

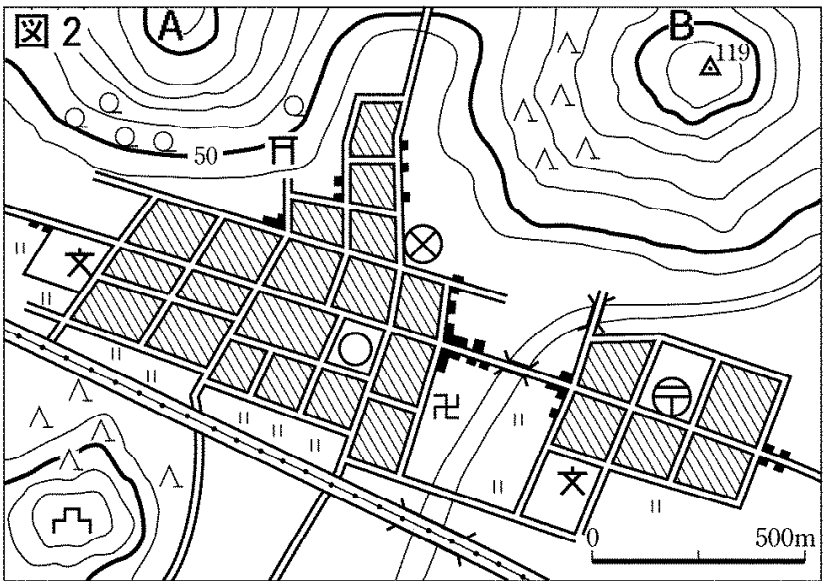

〔現在の町のようす〕

【課題】「変化したことをあげてみよう！」

1		2	
3		4	